Del conteo a la gráfica

Un grupo eligió su fruta favorita. Cada estudiante votó una sola vez.

Mango 8 votos	**Manzana** 6 votos	**Pera** 4 votos	**Uva** 10 votos

Dibuja las barras. Cada línea horizontal equivale a dos votos.

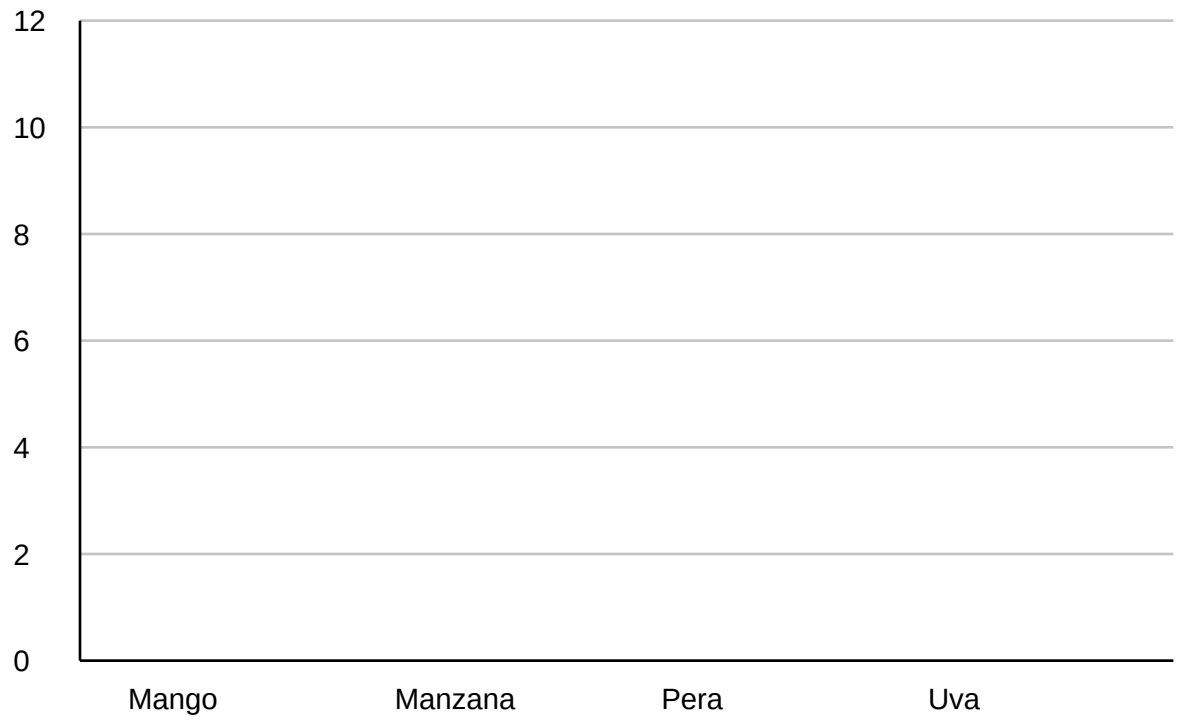

¿Qué fruta recibió más votos?

_____

¿Cuántos votos más recibió la uva que la pera?

_____

¿Cuántas personas participaron? Escribe la operación.

_____

Lee una gráfica

La biblioteca registró los libros prestados durante cuatro días.

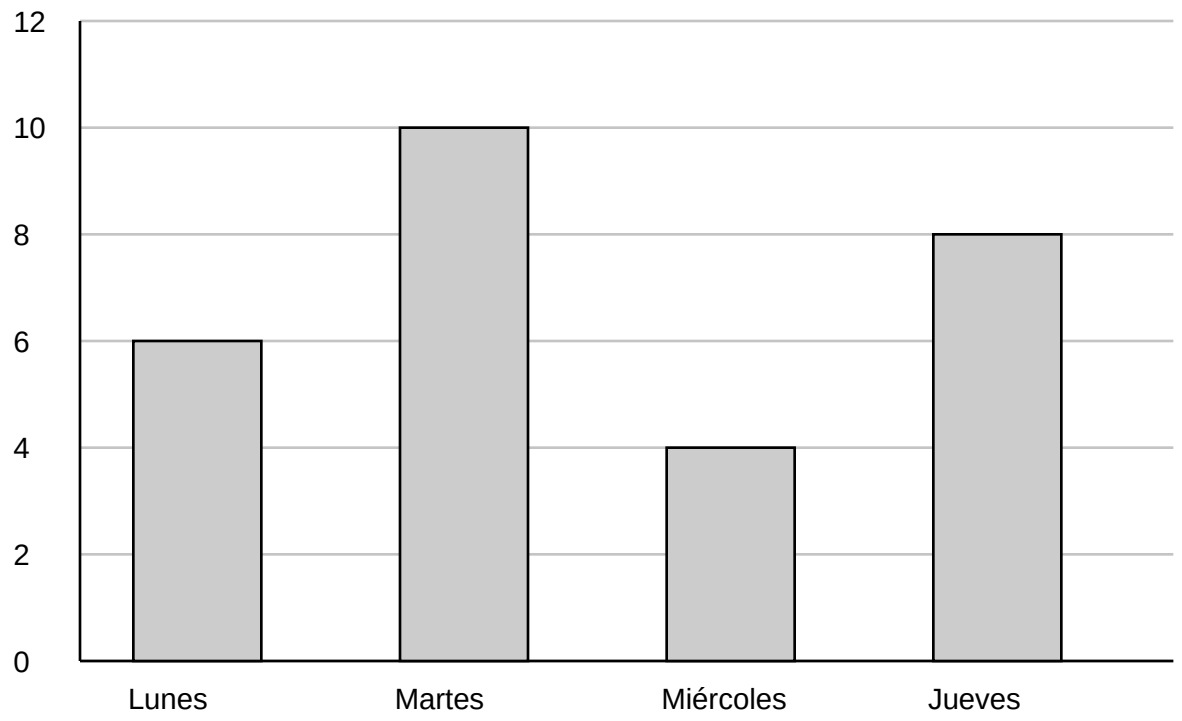

1. ¿Qué día hubo más préstamos?

2. ¿Cuántos libros se prestaron entre lunes y jueves (solo esos dos días)?

3. ¿Cuánto habría que añadir al miércoles para igualar al martes?

4. Escribe una comparación verdadera entre dos días.

Soluciones

Compara tus barras y explica una de tus respuestas en voz alta.

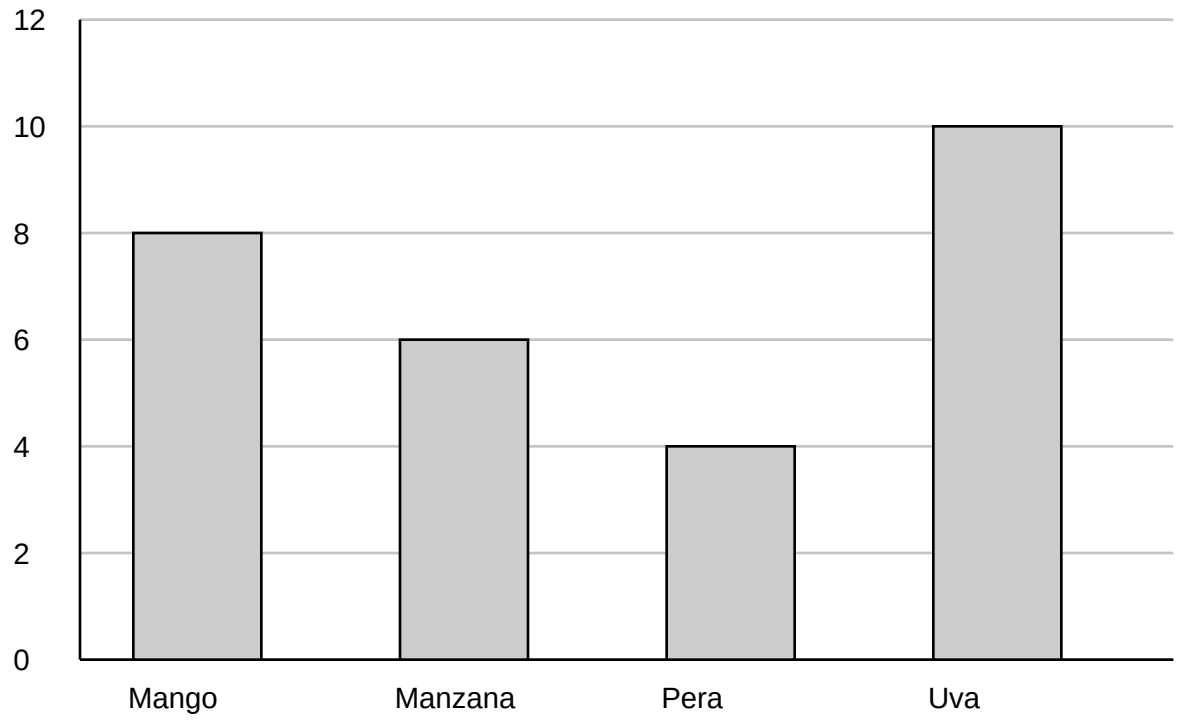

Hoja 1 · Uva. La diferencia es 10 - 4 = 6. Participaron 8 + 6 + 4 + 10 = 28.

Hoja 2 · 1. Martes (10). 2. Lunes y jueves: 6 + 8 = 14.

3. Al miércoles le faltan 6 para igualar al martes: 4 + 6 = 10.

4. Ejemplo: el jueves se prestaron dos libros más que el lunes.