# Pizza de fracciones

Colorea o recorta por el borde exterior y las líneas rectas. La línea punteada es la orilla.

## Entero

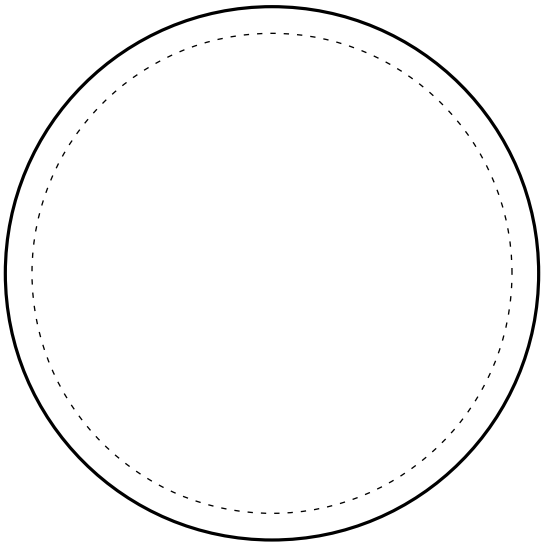

1 entero

## Mitades

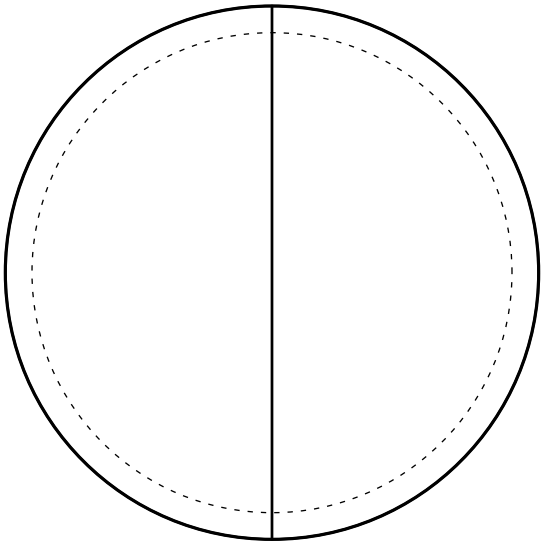

Cada porción representa 1/2

# Pizza de fracciones

Colorea o recorta por el borde exterior y las líneas rectas. La línea punteada es la orilla.

## Tercios

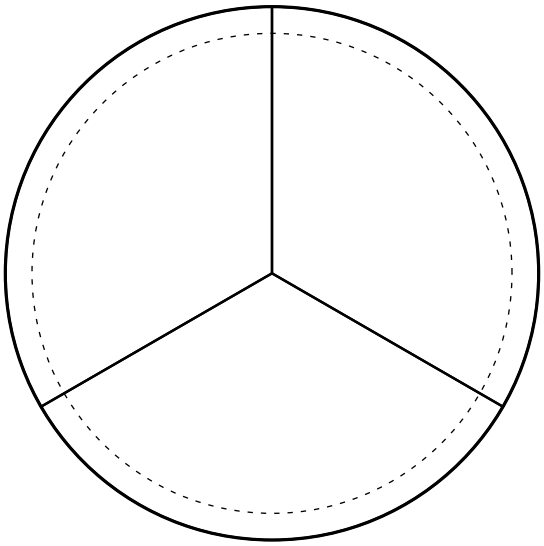

Cada porción representa 1/3

## Cuartos

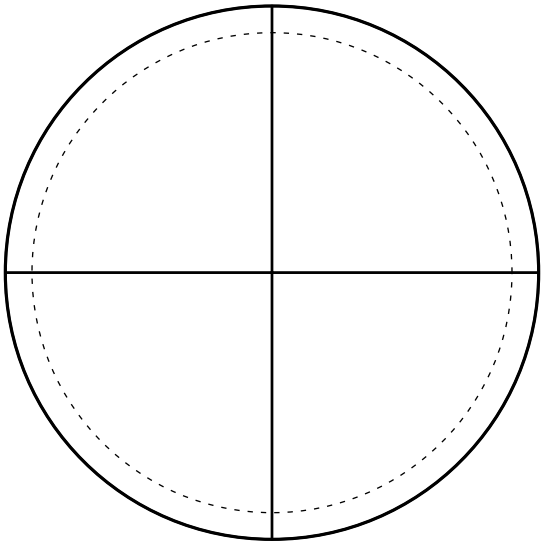

Cada porción representa 1/4

# Pizza de fracciones

Colorea o recorta por el borde exterior y las líneas rectas. La línea punteada es la orilla.

## Sextos

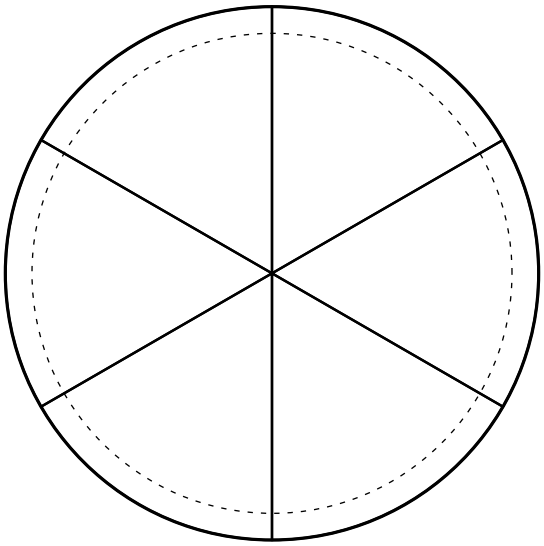

Cada porción representa 1/6

## Octavos

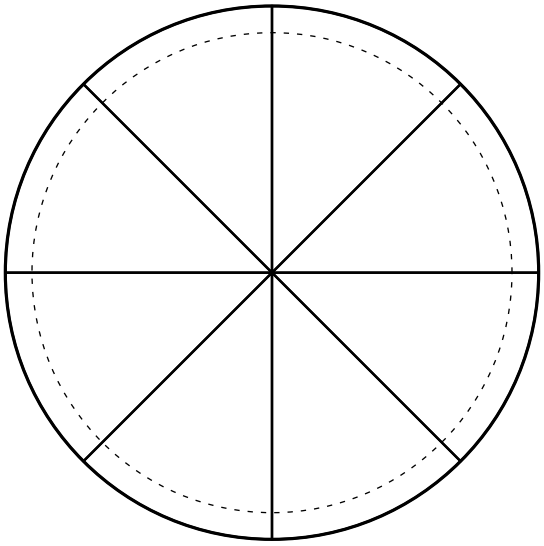

Cada porción representa 1/8

# Guía de uso · Pizza de fracciones

Todos los círculos tienen el mismo diámetro. No hay que doblar ni montar piezas.

Antes de recortar. Imprime las páginas 1 a 3 en tamaño real sobre papel carta. Cada círculo mide aproximadamente 7,06 cm de diámetro al 100 %. Si imprimes con ajuste a otro papel, conserva la misma escala en las tres hojas.

Explora el entero. Conserva el círculo sin divisiones como base. Coloca sobre él dos mitades, tres tercios, cuatro cuartos, seis sextos u ocho octavos. Cada grupo completa un entero.

Compara porciones. Usa las piezas para comprobar: 1/2 =2/4 =3/6 =4/8; 1/3 =2/6; 1/4 =2/8. La cantidad de porciones puede cambiar aunque cubran la misma parte del entero.

Tres retos. 1. ¿Cuántos octavos cubren una mitad?
2. ¿Qué es mayor: 1/3 o 1/4?
3. Toma 3/4 de la pizza. ¿Qué fracción falta para completar el entero?

Respuestas. 1. Cuatro octavos.
2. Un tercio es mayor que un cuarto del mismo entero.
3. Falta 1/4.

Sin recortar. También puedes señalar o colorear partes sobre las hojas. Las piezas son planas y no tienen pestañas ni instrucciones de montaje.